2 TABLAS DE FRECUENCIAS

Ejercicio resuelto

¿Cuántos hermanos o hermanas tienes? Las respuestas a esa pregunta dadas por 20 personas son las siguientes:

4, 3, 1, 1, 2 0, 1, 4, 1, 2 1, 1, 0, 0, 3 2, 0, 5, 0, 1

Realizamos con estos datos una tabla de frecuencias y los representamos gráficamente mediante un diagrama de barras.

HERMANOS	RECUENTO	FREC.
0	卌	5
1	卌 ||	7
2	|||	3
3	||	2
4	||	2
5	|	1

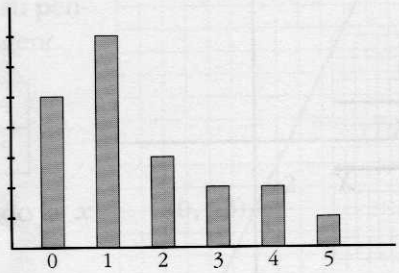

1. Aquí tienes las respuestas dadas por otras 30 personas a la pregunta del ejercicio resuelto. Haz una tabla de frecuencias y represéntala mediante un diagrama de barras.

1, 0, 4, 1, 3
1, 1, 3, 5, 1
0, 1, 4, 1, 2
2, 1, 5, 4, 0
2, 1, 1, 0, 2
3, 1, 0, 5, 6

N.° DE HERMANOS	RECUENTO	FRECUENCIA
0		
1		
2		
3		
4		
5		
6		

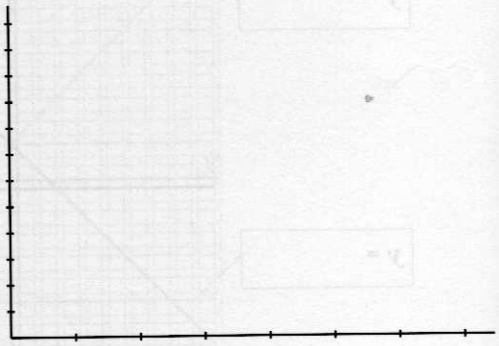

2. Haz una tabla de frecuencias y represéntala mediante un diagrama de barras para los siguientes datos (notas de un grupo de alumnos).

9, 1, 6, 8, 2
10, 5, 3, 8, 5
8, 7, 5, 7, 3
4, 5, 3, 5, 6
9, 9, 6, 5, 8
7, 4, 4, 8, 2
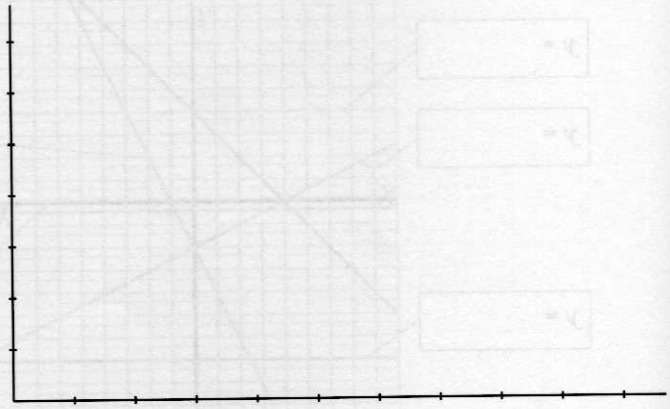
NOTAS	RECUENTO	FRECUENCIA
1		
2		
3		
4		
5		
6		
7		
8		
9		
10